MINISTERUL EDUCAȚIEI

SOCIETATEA DE GEOGRAFIE DIN ROMÂNIA

EDITURA CD PRESS www.cdpress.ro

Terra

„TERRA” ORSZÁGOS ISKOLAI FÖLDRAJZVERSENY

ORSZÁGOS SZAKASZ

2022 május 14

VII. OSZTÁLY

Örülök hogy újra találkozunk az országos szakaszon. Jól kezeled a számítógépet ezért biztosan jól fogsz boldogulni. A helyes válasz megadásához, az egeret (mouse) használva, kattints az általad helyesnek tartott válasz gombjára vagyis jelöld be a helyes válaszhoz tartozó kis kört. Legyél figyelmes, nem kell sietni! ***90 perc*** *áll a rendelkezésedre. Sok sikert!*



I.Tétel (22 pont)

Az alábbi Afrika térképen éghajlati típusok (számokkal jelölve) és vízrajzi elemek (betűkkel jelölve) láthatóak. A mellékelt képek a kontinens jellegzetes biogeográfiai elemeit ábrázolják.







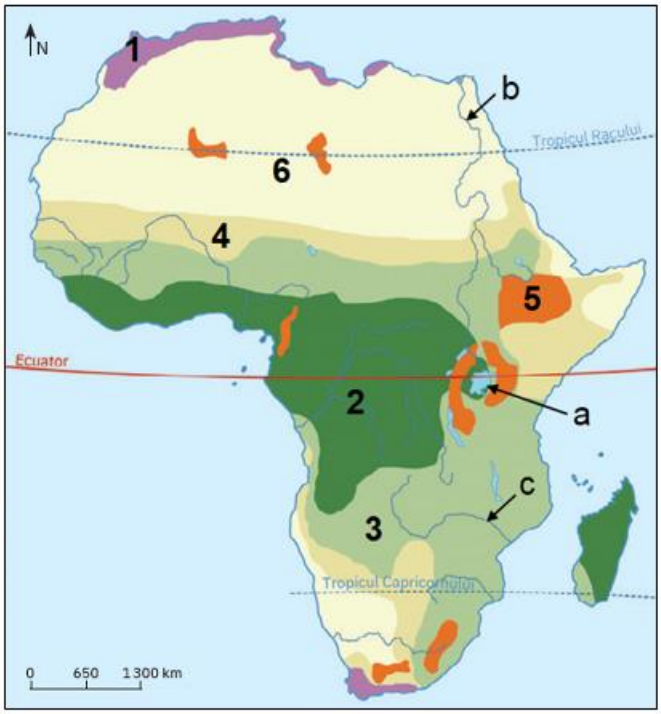







A. ***Társítsátok a képeken ábrázolt biogeográfiai elemeket a megfelelő éghajlati típusokkal. Írjátok az üres mezőkbe azt a számot, amelyik a térképen ábrázolt éghajlati típusnak megfelel!***

A kép ☐ **B kép** ☐ **C kép** ☐

D kép ☐ **E kép** ☐ **F kép** ☐

12 pont

B. ***Olvasd el figyelmesen az alábbi kijelentéseket! Állapítsd meg, hogy ezek a kijelentések igazak vagy hamisak-e. Kattints a helyes válasznak ítélt betű melletti kicsi körre.***

1. A **b** betűvel jelölt folyó torkolatánál egy tölcsértorkolat alakult ki.

○ **a.** Igaz ○ **b.** Hamis **2 pont**

2. Az **a** betűvel jelölt tó tektonikus eredetű.

○ **a.** Igaz ○ **b.** Hamis **2 pont**

3. A baobab a térképen **5**-ös számmal jelölt éghajlat jellegzetes növényzetéhez tartozik.

○ **a.** Igaz ○ **b.** Hamis **2 pont**

4. A Zambezi folyamot a térképen a **c** betű jelöli.

○ **a.** Igaz ○ **b.** Hamis **2 pont**

5. A **6**-os számmal jelölt éghajlati típus elterjedési térségének egyik sajátos felszínformája a hammada.

○ **a.** Igaz ○ **b.** Hamis **2 pont**

II.Tétel (12 pont)

Elemezd figyelmesen az alábbi térképet és írd az üres mezőkbe azt a betűt vagy számot, amely kiegészíti a következő kijelentéseket:

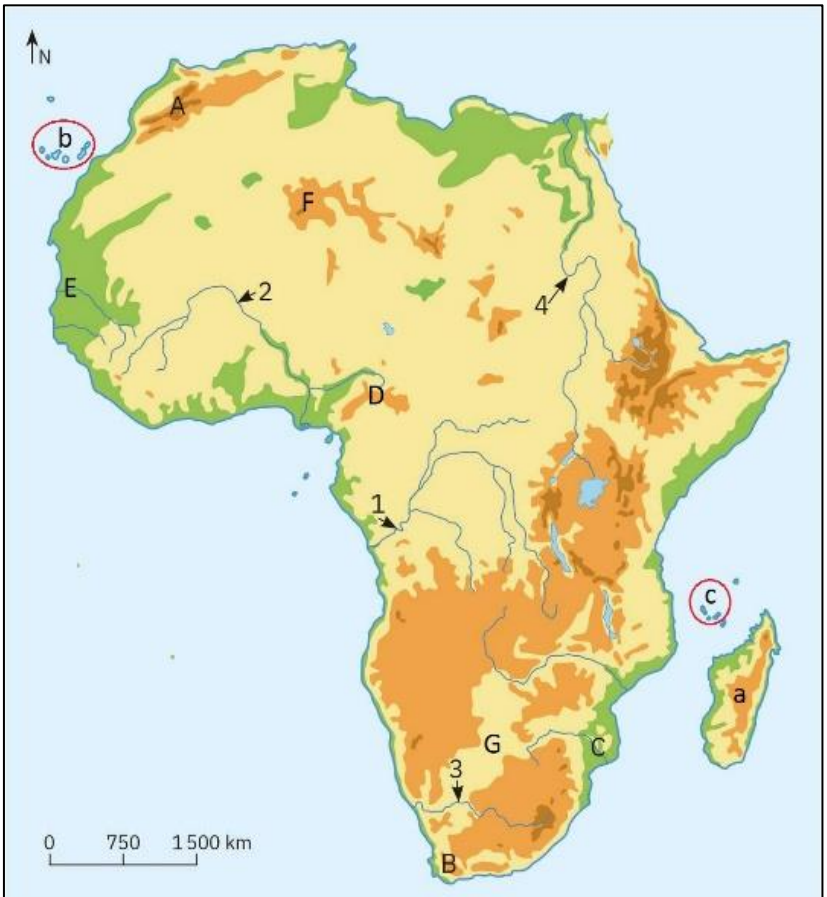

1. Algéria területén található a térképen a következő betűvel jelölt domborzati egység ☐
2. A Szenegál folyam átszeli a térképen a következő betűvel jelölt domborzati egységet ☐
3. Kontinentális eredetű a térképen a következő betűvel jelölt sziget ☐
4. A Fok-hegységet a térképen a következő betű jelöli ☐
5. A Kamerun-hegységet a térképen a következő betű jelöli ☐
6. Az Orange folyamot a térképen a következő szám jelöli ☐

III.Tétel (32 pont)

A. *Elemezd figyelmesen a képeket és aztán kattints a helyes válasznak ítélt betű melletti kicsi körre mindegyik kijelentés esetében:*

1. Az **1**-es számmal jelölt képen látható deltatorkolat az alábbi folyam torkolatánál alakult ki:



- ○ **a.** Jenyiszej
- ○ **b.** Gangesz
- ○ **c.** Léna
- ○ **d.** Ob

2 pont

2. A **2**-es számmal jelölt képen látható lakóház-típus jellemző az alábbi ország lakosságára:



- ○ **a.** Kambodzsa
- ○ **b.** Irán
- ○ **c.** Líbia
- ○ **d.** Mongólia

2 pont

3. A **3**-as számmal jelölt képen látható falusi településtípus jellemző az alábbi országra:



- ○ **a.** Afganisztán
- ○ **b.** Dél-afrikai Köztársaság
- ○ **c.** Vietnám
- ○ **d.** Tunézia

4. A **4**-es számmal jelölt képen látható növényzeti típus neve:



- ○ **a.** egyenlítői esőerdő
- ○ **b.** szavanna
- ○ **c.** sztyepp
- ○

d. tundra

2 pont

5. Az **5**-ös számmal jelölt képen látható állat ebben az országban él:



- **a.** Kongó
- **b.** Etiópia
- **c.** Indonézia
- **d.** India

2 pont

B. ***Olvasd el az alábbi kijelentéseket és aztán kattints a helyes válasznak ítélt betű melletti kicsi körre:***

1. Gejzírek sorai találhatóak az alábbi félszigeten:

a. Arab **b.** Kis-Ázsia **c.** India **d.** Kamcsatka **2 pont**

2. ”Nahicseván” exklávé az alábbi országhoz tartozik:

a. Kelet-Timor **b.** Lesotho **c.** Azerbajdzsán **d.** Pakisztán **2 pont**

3. A világ utolsó neolotikum előtti törzséhez tartozik:

a. Nagy Andamán **b.** Szentineléz **c.** Jarawa **d.** Onge **2 pont**

4. Erdős területeken, farönkökből épült lakóházak neve:

a. karaan **b.** rönkház(boronaház) **c.** iglu **d.** jurta **2 pont**

5. Seikan, a világ leghosszabb alagútja, összeköti az alábbi szigeteket:

a. Shikoku és Honshu **b.** Hokaido és Kyushu
c. Honshu és Hokaido **d.** Kyushu és Honshu **2 pont**

C. Az alábbi képek a következő városok látványosságait, nevezetes épületeit mutatják be: Kairó, Fokváros, Hong-Kong, Kinshasa, Kuala-Lumpur, Lagos.
Azonosítsd, a bemutatott jellemzők alapján, a képen látható mindegyik várost a nevük mellett található kicsi körre kattintva:

a kép:

- Kairó
- Fokváros
- Hong-Kong
- Kinshasa
- Kuala-Lumpur
- Lagos

2 pont



Afrika második metropolisza, Guineai-öböl

b kép:

- Kairó
- Fokváros
- Hong-Kong
- Kinshasa
- Kuala-Lumpur
- Lagos

2 pont



Kongói Dem. Közt. fővárosa, a Kongó folyam bal partján

c kép:

- Kairó
- Fokváros
- Hong-Kong
- Kinshasa
- Kuala-Lumpur
- Lagos

2 pont



Afrika legnagyobb városa, piramisok

d kép:

- Kairó
- Fokváros
- Hong-Kong
- Kinshasa
- Kuala-Lumpur
- Lagos

2 pont



Törvényhozási főváros, Jóreménység-foka

e kép:

- Kairó
- Fokváros
- Hong-Kong
- Kinshasa
- Kuala-Lumpur
- Lagos

2 pont



Egykori brit gyarmat, csúcstechnológia

f kép:

- Kairó
- Fokváros
- Hong-Kong
- Kinshasa
- Kuala-Lumpur
- Lagos

2 pont



Petronas tornyok, iszlám

IV.Tétel (8 pont)

Adott az alábbi vízrajzi elemek jegyzéke:

a - *Bajkál,*
b - *Viktória,*
c - *Tanganyika,*
d - *Ob,*
e - *Chiang-Jiang*
f - *Gangesz,*
g - *Nílus,*
h - *Aral.*

Ezek közül négy vízrajzi elem leírása megtalálható a következő kijelentésekben (1, 2, 3 és 4-es számokkal jelölve).
Azonosítsd a vízrajzi elemet és írd az üres mezőbe az ennek megfelelő betűt.

1. A Zambezi folyamon található leghíresebb és leglátványosabb vízesés, amelyet az őslakosok Mosi-oa-Tunya „füstölgő és mennydörgő” vízesésnek neveznek, magassága 122 m és szélessége 1800 m. ☐

2 pont

2. Afrika tavainak szimbóluma, a legrégebbi afrikai tó, tektonikus eredetű, ezelőtt kb. 12 millió évvel alakult ki és a kontinens legnagyobb édesvíz tartaléka, 4 500 növény-és állatfaj lakhelye, amelynek fele endémikus. ☐

2 pont

3. Ennek a folyamnak a hossza, de leginkább forrásai a szakemberek vitatárgya volt hosszú időkön át; délről északi irányba folyik és deltattorkolatot képezve ömlik a Földközi-tengerbe. ☐

2 pont

4. A hinduk szent folyama, az indiai civilizáció és kultúra szimbólumaként ismert, a Himalája középső részéből ered és a Bengáli-öbölbe ömlik, a világ legnagyobb deltáját alkotva. ☐

2 pont

V.Tétel (16 pont)

Elemezd az alábbi térképet, amelyen országok láthatóak (A-tól F betűig), tengerszorosok (a-tól c betűig) és szigetek/szigetcsoportok (1-től 5-ig számozva). Írd az üres mezőkbe a helyes válaszoknak megfelelő betűt vagy számot:

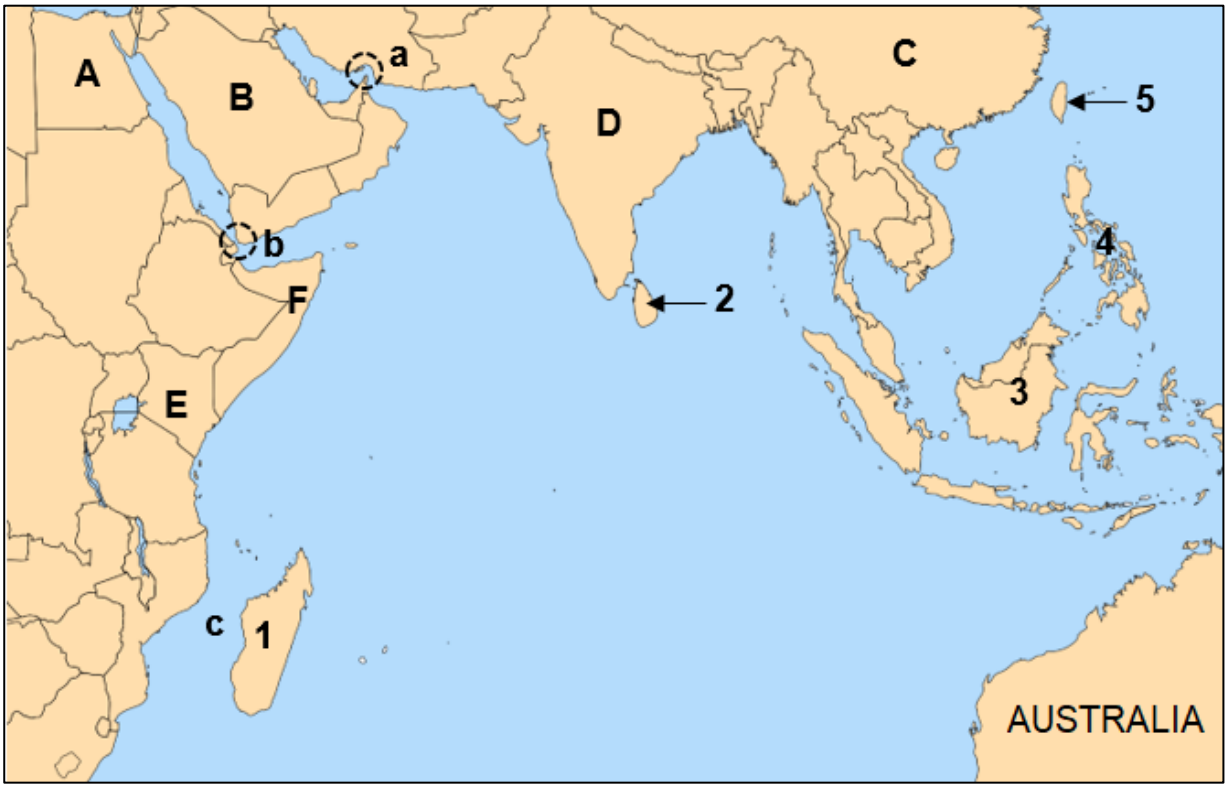

1. Fűszernövények, főleg vanília termesztése jellemző abban az országban, amelynek fővárosa Antananarivo, az a város, amely a következő számmal jelölt szigeten van: ☐

2. A Hormuzi-szorost a térképen a következő betű jelöli: ☐

3. Manila a fővárosa annak a szigetcsoporton fekvő országnak, amelyet a térképen a következő szám jelöl: ☐

4. Vulkáni eredetű, 5 000 métert meghaladó hegyek vannak abban az országban, amelyet a térképen a következő betű jelöl: ☐

5. Legnagyobb szénhidrogén tartalékokkal rendelkezik az az ázsiai ország, amelyet a térképen a következő betű jelöl: ☐

6. „Afrika szarván” található az ország, amelyet a térképen a következő betű jelöl: ☐

7. Hinduizmus az uralkodó vallás abban az országban, amelyet a térképen a következő betű jelöl: ☐

8. Politikailag három ország osztozik azon a szigeten, amelyet a térképen a következő szám jelöl: ☐

Gratulálunk!!! Befejezted a tesztet. Most hivatalból **10 pont** jár neked. Ahhoz, hogy láthasd, mennyi pontot szereztél, kattints a **FINALIZARE** gombra.
Figyelj! Előbb ellenőrizd a válaszokat, mert utólag nem lesz lehetőséged módosítani a válaszokat.
A végső pontszámtól függetlenül, te az én ügyes barátom vagy. Örvendek, hogy megismertelek és légy büszka arra, hogy részt vettél ezen a versenyen!
Remélem, jövőre is találkozunk. Szia!!!

